义务教育教科书

地理

绿色印刷产品

价格依据文件号：湘发改价费规〔2022〕449号

ISBN 978-7-5754-0053-4
9 787575 400534 >
定价：8.82元

义务教育教科书

地理

七年级下册

湖南教育出版社

国家教材委员会专家委员会审核通过
2024

义务教育教科书

地理

七年级下册

湖南教育出版社

图　例

◉曼谷	首都、首府		海岸线
○悉尼	主要城市		常年河、水库
	洲界		时令河
	国界		湖泊
	未定国界		时令湖
	地区界		陆缘冰
	军事分界线、停火线		运河
	铁路		沼泽
	港口		沙漠
	关隘	▲5155	山峰、海拔/米
	珊瑚礁	5895	火山、海拔/米
	水电站		

义务教育教科书

YIWU JIAOYU JIAOKESHU

地理

DILI

七年级下册

主　　编　朱　翔　刘新民

编写人员　申玉铭　张　勇　汤国荣　胡长明

李亚平　胡茂永　武巧燕

地图编制　星球地图出版社

湖南教育出版社

著作权所有，请勿擅用本书制作各类出版物，违者必究。

图书在版编目（CIP）数据

义务教育教科书．地理七年级 下册 / 朱翔，刘新民主编．—长沙：湖南教育出版社，2024.12（2025.12 重印）
ISBN 978-7-5754-0053-4

Ⅰ．①义…　Ⅱ．①朱…　②刘…　Ⅲ．①中学地理课—初中—教材　Ⅳ．① G634

中国国家版本馆 CIP 数据核字（2024）第 029945 号

义务教育教科书
地　理
七年级下册

YIWU JIAOYU JIAOKESHU
DILI
QI NIANJI XIACE

责任编辑：谢晓宇　邹凌哲
美术编辑：彭语涵　张婷婷
地图编制：星球地图出版社
湖南教育出版社出版（长沙市韶山北路 443 号）
电子邮箱：hnjycbs@sina.com
客服电话：0731-85486979
湖南出版中心重印
湖南省新华书店发行
湖南天闻新华印务有限公司印装
787 mm × 1092 mm　16 开　印张：8.5　字数：155 000
版次：2024 年 12 月第 1 版
印次：2025 年 12 月第 2 次印刷（2026 春）
ISBN 978-7-5754-0053-4
审图号：GS（2024）0615 号　定价：8.82 元
如有质量问题，影响阅读，请与湖南出版中心联系。
联系电话：0731-88388986

前言 QIANYAN

在本册书中，我们将学习世界地理。

世界上共有七大洲。亚洲、欧洲和非洲连成一体，被称为旧大陆；后来才被人们“发现”并逐步垦殖的南、北美洲，被称为新大陆。大洋洲为浩瀚无垠的海洋所环抱，动植物乃至自然景观自成一体。南极洲银装素裹，终年寒风咆哮。我们以亚洲为典型案例，从地理位置、地形地貌、气候、河流等方面入手，与欧洲进行对比学习，并对其他大洲展开探究，借此掌握学习大洲的基本方法。

我们将学习一些典型的地理区域，比如东南亚、南亚、西亚、欧洲西部、北极地区和南极地区。通过对其自然地理、历史人文、社会经济、对外联系等方面的分析，我们可以归纳出这些区域的基本特征。

世界上的国家为数众多，国情各具特色。美国是经济高度发达、综合实力雄厚的国家；日本尽管领土面积狭小，矿产资源贫乏，却以高水平的外向型经济令人瞩目；德国是欧洲工业强国，以精良的制造业著称于世；法国、意大利将产业经济与传统文化相结合，所生产的香水、葡萄酒、时装享誉世界；印度文明源远流长，恒河流淌着厚重的文化；埃及的文明史可上溯到 5 000 年前，尼罗河沿岸的金字塔举世闻名；俄罗斯幅员辽阔，是世界上面积最大的国家，也是唯一地跨亚、欧两大洲和东、西两半球的国家；巴西拥有世界上面积最大的热带雨林，亚马孙河奔流其中，水势磅礴；澳大利亚因发达的畜牧业和丰富的矿产资源，被誉为“骑在羊背上”“坐在矿车里”的国家。我们不仅要了解这些国家在社会、经济、文化等方面的特色，也要看到它们各自存在的问题和弊端，增强全面分析问题的能力。

让我们认识世界，拥抱世界，维护世界和平，促进共同发展，为推动构建人类命运共同体而努力！

目录 MULU

第七章　认识大洲　1

第一节　亚洲及欧洲　2
第二节　非　洲　14
第三节　美　洲　24
探究与实践　“划区”识世界　35

第八章　了解地区　37

第一节　东南亚　38
第二节　南　亚　47
第三节　西　亚　56
第四节　欧洲西部　64
第五节　北极地区和南极地区　70
探究与实践　保护极地环境　79

第九章　走近国家　81

第一节　日　本　82
第二节　埃　及　90
第三节　俄罗斯　96
第四节　法　国　102
第五节　美　国　108
第六节　澳大利亚　117
探究与实践　走进巴西　124

后　记　129

第七章

认识大洲

在充满生机的地球上，分布着七个大洲：亚洲地域辽阔，山岳巍峨；欧洲三面临海，环境宜人；非洲气候炎热，矿藏丰富；南、北美洲雄踞于西半球，广袤的森林郁郁葱葱，巨大的淡水湖群碧波荡漾；大洋洲星罗棋布的岛屿，散落在浩瀚无垠的太平洋上；南极洲冰川覆盖，常年风雪肆虐，原始的自然环境成就了极地研究的天然实验室。

让我们插上科学的翅膀，乘着浩荡的长风，去畅游世界各大洲吧！

菲律宾保和岛巧克力山

第一节 亚洲及欧洲

发现

古代，生活在地中海东岸的人们，把他们居住地以东的地方称为“亚细亚”，以西的地方称为“欧罗巴”。在当地语言中，“亚细亚”意为“东方日出之地”，“欧罗巴”意为“西方日落之地”。后来，“亚细亚”和“欧罗巴”所指的地域范围不断扩大，分别成为亚、欧两大洲的名称。

1 想一想，古代生活在地中海东岸的人们是怎样划分“亚细亚”和“欧罗巴”的？

2 读图 7-1，说出亚、欧两大洲的分界线。

亚洲和欧洲的大陆部分连为一体，称为亚欧大陆，面积 5 000 多万平方千米。亚洲和欧洲地理环境复杂多样，社会经济发展各具特色。

位置与范围

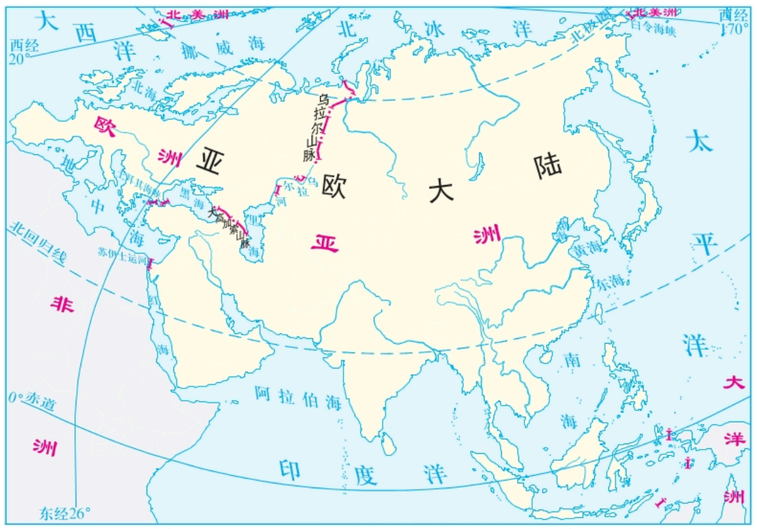

图 7-1 亚洲和欧洲地理位置

亚洲主要位于东半球和北半球。从纬度位置来看，亚洲北部深入北极圈内，南部延伸到赤道以南。从经度位置来看，亚洲东至西经约170°，西至东经约26°，范围广大。从海陆位置来看，亚洲东、北、南三面分别濒临太平洋、北冰洋和印度洋，西与欧洲相连，西南与非洲为邻，东北隔白令海峡与北美洲相望。亚洲面积4 400万平方千米，是世界第一大洲。

活动

描述欧洲的地理位置

读图7–1，完成相关任务。

1. 说出欧洲的半球位置。
2. 说出欧洲所处的经纬度范围。
3. 找出欧洲濒临的大洋和相邻的大洲。

一个大洲的地理位置，一般可以从半球位置、经纬度位置和海陆位置三个方面来描述。

高原、山地为主的亚洲地形

图7–2　亚洲和欧洲地形分布

亚洲地形的主要特征是：

地形以高原、山地为主，平均海拔高。亚洲的山地、高原和丘陵约占全洲面积的 3/4，全球海拔超过 8 000 米的高峰全在亚洲境内，平均海拔 950 米，是除南极洲以外平均海拔最高的大洲。

地表起伏大，高低悬殊。亚洲有世界上平均海拔最高、被称为“世界屋脊”的青藏高原，也有地势低平的西西伯利亚平原。喜马拉雅山脉主峰珠穆朗玛峰，是世界最高的山峰，号称“地球之巅”；死海的湖面，是世界陆地表面最低处。

地势中部高，四周低。“世界屋脊”青藏高原雄踞亚洲中部，喜马拉雅山脉等众多高大的山脉，以帕米尔高原为中心向四周延伸。平原多分布在大陆边缘。

多群岛和海沟。大陆东侧和东南侧有世界上规模最大、最典型的呈弧形排列的群岛；群岛外侧紧邻深邃的海沟，如马里亚纳海沟。这里的地壳不稳定，为环太平洋火山地震带的重要组成部分。

图 7–3　阿尔泰山脉景观

图 7–4　堪察加半岛景观

活动

认识欧洲地形

根据图 7–2 和下列资料，填表对比亚、欧两大洲地形的主要特征。

一个大洲的地形特征可以从平均海拔、地表起伏状况、主要地形类型、地形分布格局和特色地形等方面归纳。

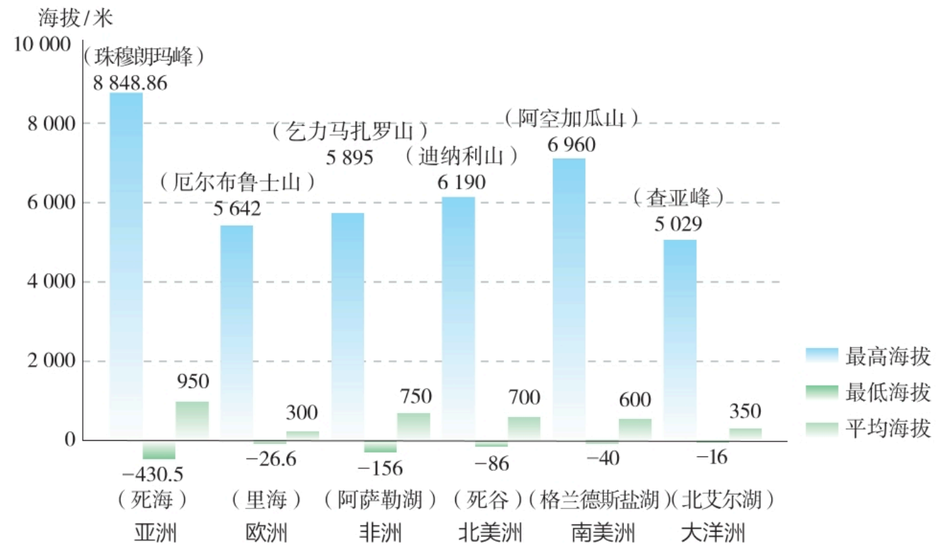

图 7–5　世界大洲（南极洲除外）陆地海拔比较

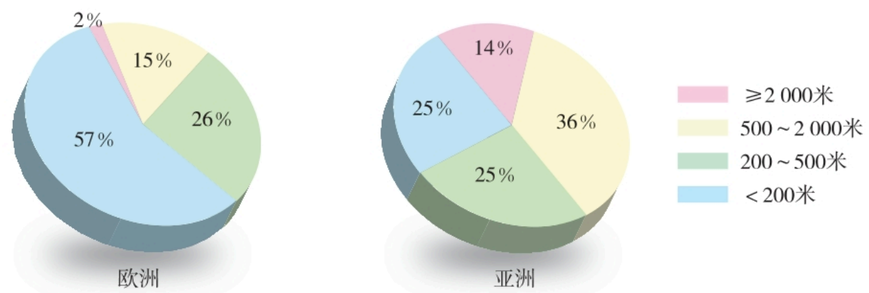

图 7–6　欧洲和亚洲不同海拔高度的陆地占比

欧洲许多地区曾经被巨厚的冰川所覆盖。当冰川向前运动时，会剧烈地刨蚀地面；消融时，又把搬运来的泥沙、石块等在地面上堆积起来。这样，就形成了独特的冰川地貌。例如，挪威沿海幽深曲折的峡湾，芬兰众多的湖泊，东欧平原上波状起伏的低丘，阿尔卑斯山脉挺拔的峰峦，大多是冰川作用的产物。

图 7–7　挪威松恩峡湾

图 7–8　芬兰塞马湖（冰川湖）

图 7–9　瑞士马特峰（角峰）

大洲	亚洲	欧洲
平均海拔		世界上平均海拔最低的大洲
地表起伏状况	地表起伏大，高低悬殊	
主要地形类型	以高原、山地为主	
地形分布格局		山脉多分布在南、北两侧
特色地形	大陆外侧多岛弧、海沟	

复杂多样的亚洲气候

亚洲面积广大，地跨寒、温、热三带，地形复杂，气候类型多样。

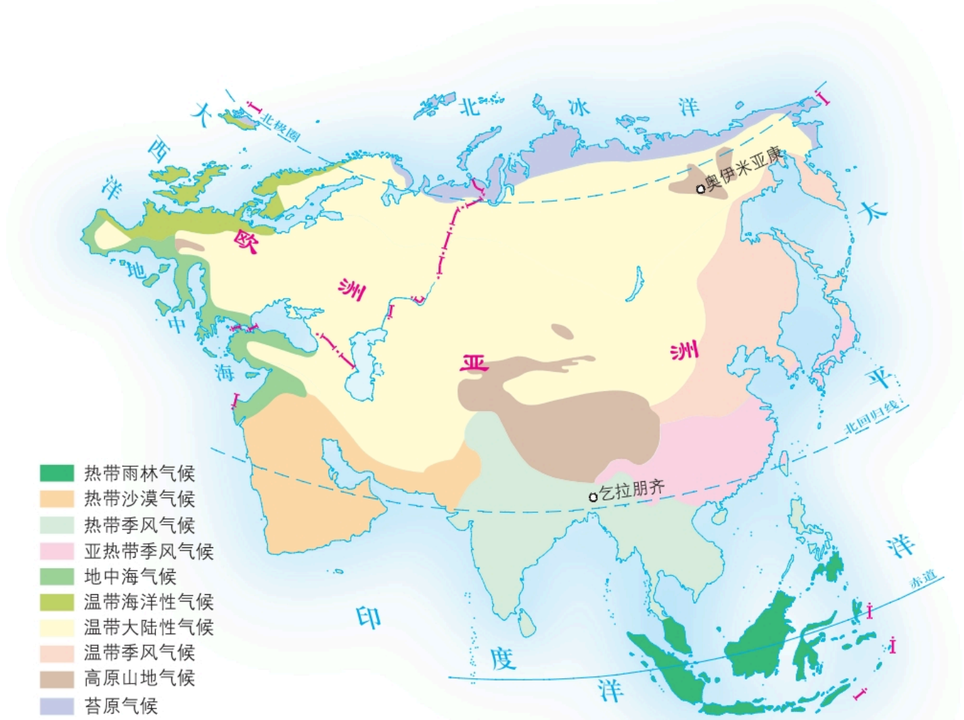

图 7-10　亚洲和欧洲气候类型分布

亚洲各地气温差别显著。赤道附近的马来群岛，常年如夏，年平均气温 26℃。西伯利亚东部，一年中有 7 个月的平均气温在 0℃以下，东北部的奥伊米亚康曾观测到 −72.2℃的低温，号称北半球的“寒极”。

亚洲各地距海远近不同，加上气流和地形等因素的影响，年降水量差异显著。这里既有降水丰沛的世界“雨极”，也有终年少雨的干旱地带。总体上看，亚洲气候的大陆性特征显著。

亚洲地处世界最大大陆——亚欧大陆的东部，濒临世界最大的海洋——太平洋，海陆热力性质差异明显。在世界各大洲中，亚洲东部和南部的季风最强盛、最典型，影响范围也最广。

图 7-11　北半球“寒极”——奥伊米亚康景观

奥伊米亚康的气候极度严寒，每年 12 月至次年 1 月日平均气温低于 -45℃。

图 7-12　世界“雨极”——乞拉朋齐景观

由于雨水过多，当地人不建桥，而是像种庄稼一样“种桥”，让河谷附近树木和藤本植物慢慢长成天然之桥。

活动

了解欧洲气候

1 读图 7-10，说一说，亚洲和欧洲主要气候类型的分布状况。

2 读图 7-13、7-14，说一说，亚欧大陆北纬 50°附近的同纬度地带，1 月、7 月气温由西向东有什么变化？年降水量由沿海向内陆有什么变化？

阅读大洲气候类型分布图，要先了解有哪些气候类型，它们大致分布在什么地方，然后再分析它们的气温和降水特点。

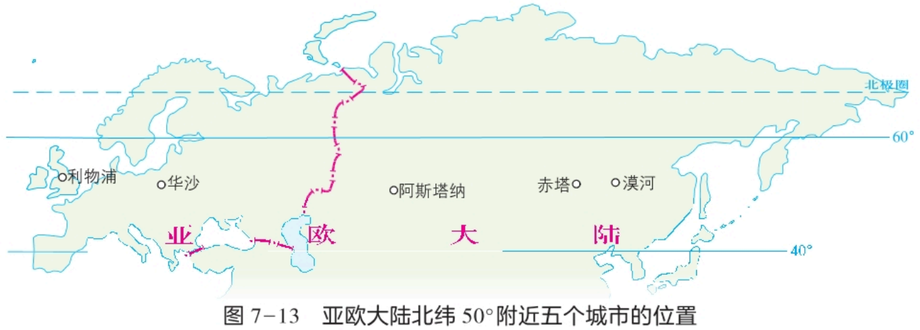

图 7-13　亚欧大陆北纬 50°附近五个城市的位置

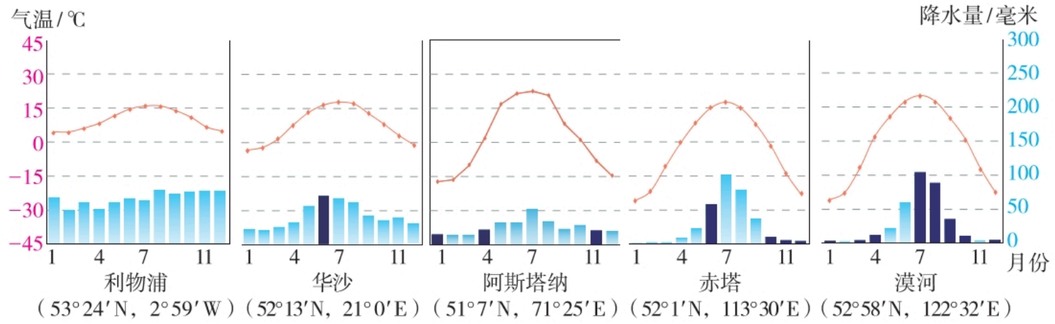

图 7-14　亚欧大陆北纬 50°附近五个城市气温和降水量比较

3 英国利物浦与我国漠河纬度相当，为什么两地 1 月平均气温相差近 30℃？

4 根据下列资料，说一说，地处欧洲的甲、乙两地的气温和降水特点，并判断两地各属哪种气候类型。

甲地月平均气温和降水量

月份	1	2	3	4	5	6	7	8	9	10	11	12
气温 / ℃	5.2	4.7	5.2	7.2	10.1	12.8	14.4	14.1	12.6	9.6	7.3	5.4
降水量/毫米	101	81	71	64	69	70	76	102	89	130	119	136

乙地月平均气温和降水量

月份	1	2	3	4	5	6	7	8	9	10	11	12
气温 / ℃	10.3	11.2	12.7	14.1	16.5	19.3	21.3	21.8	20.3	17.1	13.5	11.3
降水量/毫米	86	82	80	54	40	19	4	5	38	82	109	93

5 下列因素中，哪些对欧洲温带海洋性气候的形成具有重要作用？

- 欧洲三面临海，向西凸出，形似“大半岛”。
- 欧洲大陆轮廓破碎，海岸线漫长曲折，大部分地方距海不远。
- 欧洲大陆主体位于北纬 40°～60°，终年盛行来自大西洋的暖湿西风。
- 欧洲沿岸有北大西洋暖流经过，使西北部沿海地区显著升温。
- 欧洲山脉多为东西走向，平原广阔，且连成一片，有利于大西洋上的暖湿气流长驱直入。
- 欧洲人口密度高，城市人口所占比重大，城市、工业区热岛效应显著。

大河众多的亚洲

亚洲大江大河很多。长江的长度和流量均居亚洲首位、世界第三位。湄公河在我国境内称澜沧江，是亚洲流经国家最多的一条国际河流。

亚洲的大河多发源于中部高原山地，呈辐射状流向周边海洋。向东或东南流入太平洋的有黑龙江、黄河、长江、湄公河等；向南流入印度洋的有萨尔温江、恒河、印度河等；向北流入北冰洋的有鄂毕河、叶尼塞河、勒拿河等。亚洲中西部地形闭塞的山间高原、盆地和低地，以及荒漠、半荒漠地区分布有较多的内流河，如锡尔河、阿姆河、塔里木河等。

亚洲分布有许多独具特色的湖泊。比如，贝加尔湖是世界最深、亚欧大陆面积最大的淡水湖，死海是世界上海拔最低的湖泊（咸水湖），巴尔喀什湖因湖水东咸西淡而闻名，位于亚洲和欧洲交界的里海是世界上面积最大的湖泊（咸水湖）。

图 7-15　亚洲主要河流和湖泊分布

活动

1. 在图 7-15 中分别找出注入太平洋、印度洋和北冰洋的河流。
2. 议一议，亚洲的地形和气候对河流分布的影响。

阅读

死　海

死海，地处亚洲西部，由约旦河和其他河流汇流而成，面积约 1 000 平方千米，湖形狭长，湖面低于地中海海面 430.5 米，平均深度 300 米，最大深度达 395 米，为世界陆地最低处。当地气候干旱，蒸发旺盛，湖水含盐度高达 300‰～332‰，约为一般海水的 8.6 倍，水生植物及鱼类无法生存，沿岸草木也很少，故称其为“死海”。由于湖水密度大于人体密度，人可漂浮在水面上而不下沉。湖面空气清新、含氧量高，湖水保健效果好。随着旅游业的发展，死海附近建起了宾馆、娱乐场所等旅游设施，成为疗养度假胜地。人们惊喜地发现“死海不死”。

图 7-16　漂浮在死海湖面上的游客

图 7-17　死海

活动

熟悉欧洲河流

1 读图 7–2，找出伏尔加河、多瑙河、莱茵河，说出它们各自注入的水域。

2 从地形和气候对河流影响的角度，分析欧洲河流的分布特点。

3 多瑙河和莱茵河都是著名的国际河流，具有重要的航运价值。读图 7–18，完成相关任务。

图 7–18　多瑙河与莱茵河干流流经的国家

（1）说一说，多瑙河和莱茵河干流各流经了哪些国家？

（2）查阅资料，议一议，为什么说多瑙河和莱茵河具有重要的航运价值？

图 7–19　德国莱茵河畔斯塔莱克城堡

亚洲的人口与经济

亚洲是世界上人口最多的大洲。2021 年，亚洲总人口达 46.08 亿人，约占世界总人口的 60 %。截至 2023 年底，人口超过 1 亿的国家有 16 个，其中 8 个分布在亚洲，分别是中国、印度、印度尼西亚、巴基斯坦、孟加拉国、日本、菲律宾和越南。

阅读

欧洲的人口

2021 年，欧洲总人口 7.45 亿人，居世界各大洲第三位。除北部寒冷地区外，欧洲大部分地区的人口密度在每平方千米 50 人以上。欧洲城市化水平高，城市人口占总人口的 70 % 以上。欧洲还是世界上人口自然增长率最低的大洲。一些国家的人口自然增长率接近于零，有的甚至出现负增长。

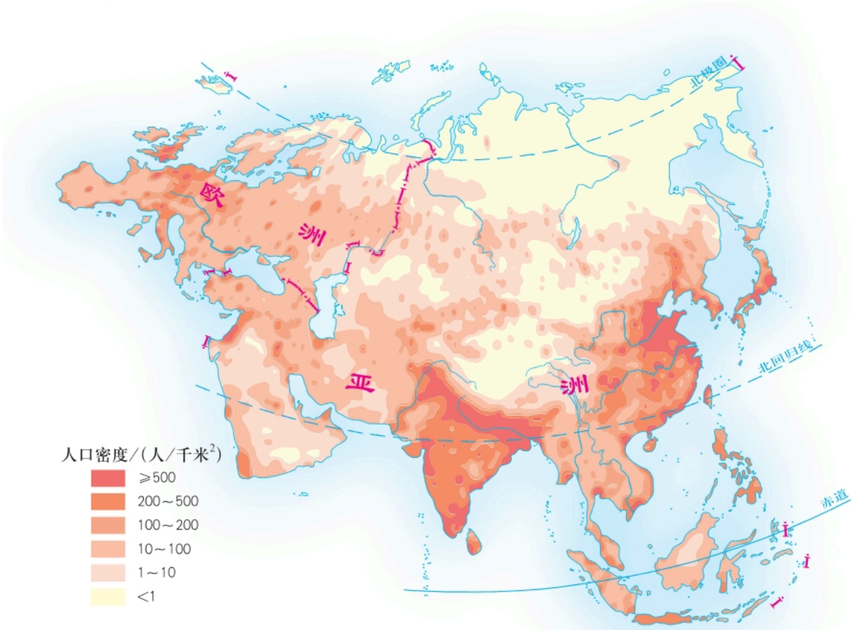

图 7-20　亚洲和欧洲人口分布

活动

1. 读图 7-20，说一说，哪些地区人口稠密，哪些地区人口稀疏？
2. 从气候的角度，分析亚欧大陆北部和亚洲西部人口稀疏的主要原因。

第二次世界大战以后，亚洲许多国家纷纷摆脱殖民统治，开始了工业化进程。亚洲经济在发展过程中，先后经历了 20 世纪 60 年代日本经济的崛起，20 世纪 70 年代以韩国、新加坡以及中国的台湾和香港为代表的“亚洲四小龙”经济的腾飞，20 世纪 80 年代以来中国和东盟部分国家经济的快速增长。当前，亚洲在世界经济格局中的作用日益凸显，在国际产业分工中的地位渐次提升，逐步由低端的原材料加工和简单的零部件制造，向研发、设计、数字化、智能化等产业价值链的中高端迈进。

亚洲各国经济发展水平差异明显，如日本、以色列、新加坡等属于发达国家，中国、印度、印度尼西亚等众多国家都属于发展中国家。有的国家自然资源丰富，如沙特阿拉伯、卡塔尔、阿联酋等国依靠石油出口获得大量外汇，成为高收入国家；还有部分国家地处内陆，环境闭塞，经济发展相对缓慢。

活动

欧洲是近代工业革命的发源地，整体发展水平较高，发达国家分布集中。收集欧洲经济发展的相关资料，完成下列任务。

1 参考玲玲和贝贝的说法，举例说明欧洲经济发达的主要原因。

地理大发现拉开了欧洲早期殖民扩张的序幕，加速了欧洲各国资本的原始积累。

工业革命最早在欧洲兴起，改变了原有的生产和生活方式，促进了资本主义经济的繁荣与发展。

2 读图 7-21，说出欧洲经济在世界经济发展中的地位及变化。

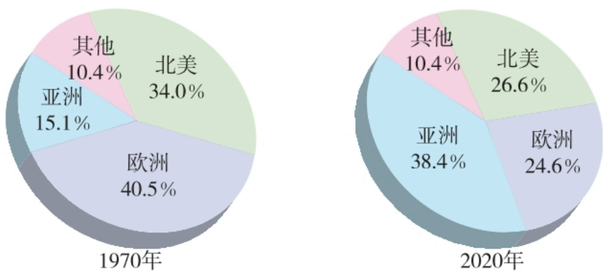

图 7-21　1970 年与 2020 年世界各大洲地区生产总值占比

第二节　非　洲

发现

东非大裂谷是世界陆地上最长的裂谷带，从卫星影像上看，就像地球的一道巨大的“伤疤”。大裂谷南起赞比西河口，纵贯非洲东部，并经红海一直延伸到西亚的死海和约旦河谷，全长约6 500千米，其中在非洲大陆上长约4 000千米。这里火山、地震活动频繁。

1 读图7-22，找出沿裂谷带分布有哪些火山和湖泊。

2 想一想，裂谷带火山、地震活动频发的原因是什么？

图7-22　东非大裂谷示意

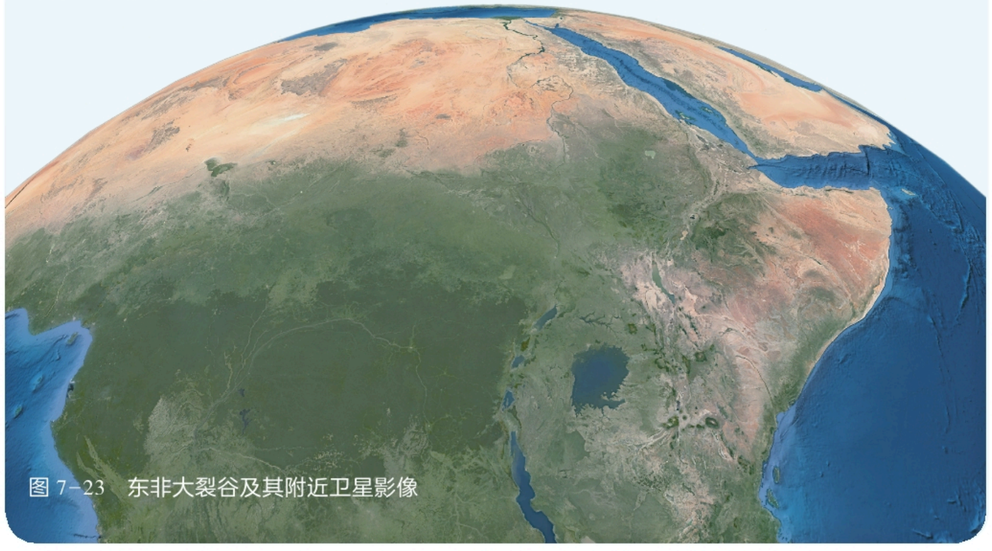

图7-23　东非大裂谷及其附近卫星影像

非洲全称阿非利加洲。“阿非利加”是“阳光灼热”的意思。

位置与范围

非洲位于东半球的西部，地跨赤道南北。它东濒印度洋，西临大西洋，北隔地中海及直布罗陀海峡与欧洲相望，东北与亚洲之间隔着狭长的红海，并以苏伊士运河为陆上分界。

目前非洲共有 60 个国家和地区，是世界上国家和地区数量最多的大洲。

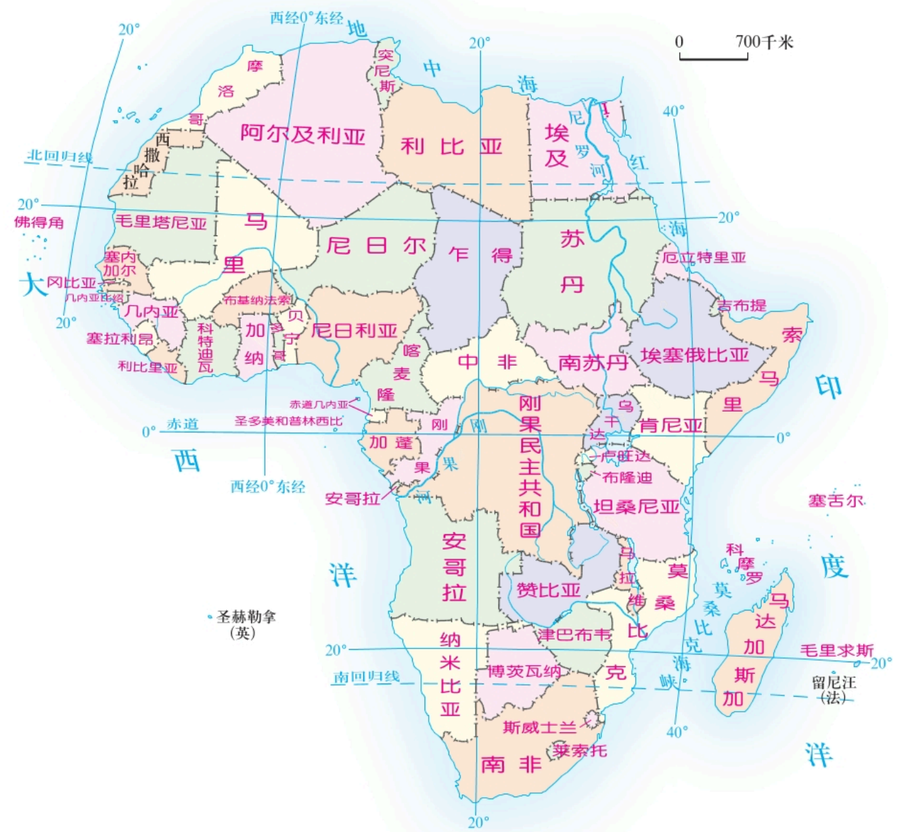

图 7-24　非洲的国家和地区

高原为主的地形

非洲大陆高原面积广大，被称为“高原大陆”，海拔 500～1 000 米的高原占全洲面积的 60% 以上。高大山脉仅分布于大陆的西北和东南边缘。

非洲地势东南高，西北低。东南部从北到南有埃塞俄比亚高原、东非高原和南非高原。埃塞俄比亚高原平均海拔在 2 000 米以上，号称“非洲屋脊”。赤道附近的乞力马扎罗山海拔 5 895 米，是非洲最高峰。流经非洲东部和北部的尼罗河是世界最长的河流，全长 6 671 千米，注入地中海。

图 7–25　非洲地形分布

乞力马扎罗山山顶全年白雪皑皑，被誉为“赤道雪峰”。由于气候变暖，山顶冰川不断萎缩。1979 年，该山被列入《世界遗产名录》。

图 7–26　乞力马扎罗山

非洲西北部除大陆边缘的阿特拉斯山脉外，大多是海拔较低的高原和盆地。赤道横贯的刚果盆地，是世界上面积最大的盆地。位于非洲北部的撒哈拉沙漠，是世界上面积最大的沙漠，约占全洲总面积的 30%。



图 7-27　撒哈拉沙漠及其附近卫星影像

“撒哈拉”，阿拉伯语意为“大荒漠”。这里年平均气温在 25℃以上，7 月在 35～37℃以上，绝对最高气温超过 50℃，年降水量大多不足 50 毫米，边缘地区在 250 毫米以下。

活动

1. 说出非洲的主要地形区。
2. 读图 7-25，找出非洲最大的海湾、半岛和岛屿。
3. 填表比较非洲与欧洲的大陆海岸线。说一说，哪个大洲的海岸线相对平直？

大洲	海岸线长度 / 千米	陆地面积 / 万千米^2	平均每 1 万平方千米陆地拥有的海岸线长度 / 千米
欧洲	37 900	1 016	
非洲	30 500	3 020	

炎热的气候

非洲约 3/4 的面积在南、北回归线之间，绝大部分地区年平均气温在 20℃以上，气候普遍炎热，因而被称为“热带大陆”。

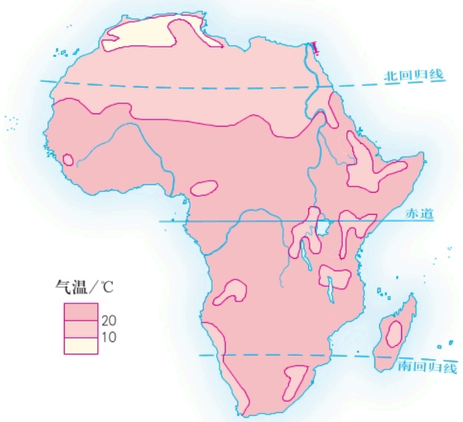

图 7-28　非洲 1 月平均气温分布

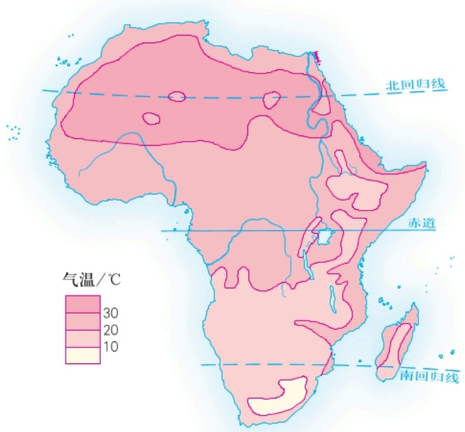

图 7-29　非洲 7 月平均气温分布

图 7-30　非洲年降水量分布

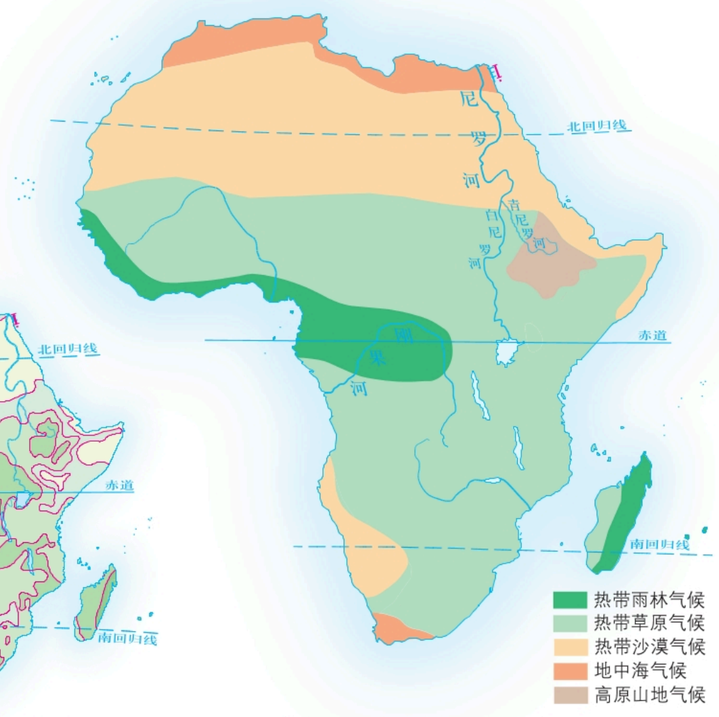

图 7-31　非洲气候类型分布

非洲的降水空间分布很不均衡。赤道附近的刚果盆地和几内亚湾沿岸降水非常丰富，形成热带雨林气候。刚果河的流域面积和河口年平均流量仅次于南美洲的亚马孙河，居世界第二位。南、北回归线两侧大多干旱少雨，形成热带沙漠气候。非洲是世界上干旱区面积最大的一个洲。

阅读

非洲“绿色长城”

为应对非洲严峻的荒漠化与土地退化形势，受我国“三北”防护林等大型绿色工程的启发，非洲联盟推出了非洲“绿色长城”计划。该计划的建设目标是沿撒哈拉沙漠南缘建成长约 8 000 千米的生态防护林带，治理约 1 亿公顷荒漠化土地。该计划于 2008 年 7 月全面启动。我国积极参与非洲“绿色长城”计划，用中国经验助推绿色非洲建设，为全球荒漠化治理贡献中国方案。

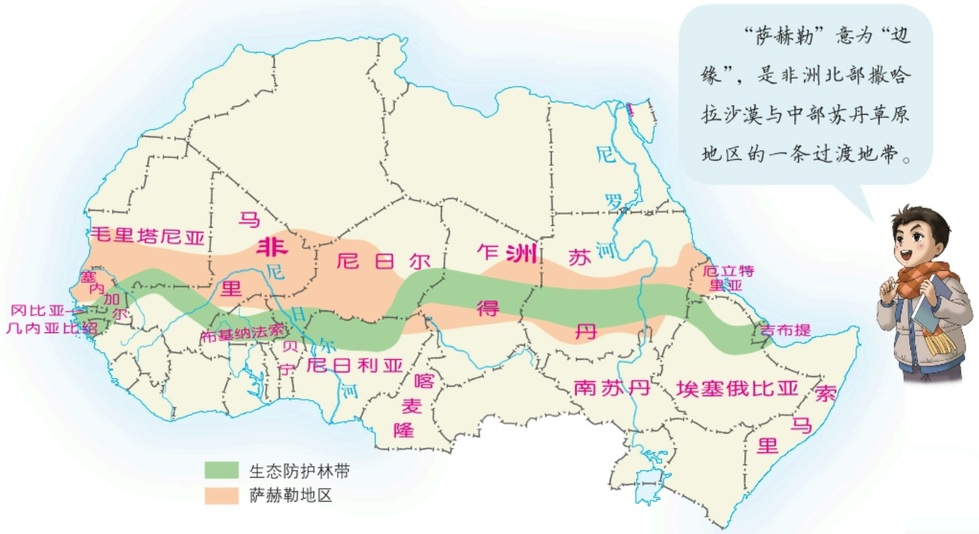

图 7–32　非洲“绿色长城”示意

刚果盆地是世界三大热带雨林区之一。热带草原气候区从北、东、南三面围绕着热带雨林气候区。非洲热带草原的面积在各大洲中最大，除发展畜牧业外，水热条件较好的地方多开垦为耕地。热带沙漠气候区植被稀少，人们在大河两岸的谷地和条件较好的绿洲发展灌溉农业。地中海气候区适于栽培柑橘、葡萄和油橄榄等经济作物。

阅读

从塞伦盖蒂到马赛马拉：东非野生动物大迁徙

坦桑尼亚北部的塞伦盖蒂国家公园，因典型的东非稀树草原风光举世闻名，是非洲大型野生动物保护区之一。位于肯尼亚南部的马赛马拉国家保护区，在自然景观上是塞伦盖蒂国家公园的北部延伸。每当干季来临，成千上万的斑马、角马、瞪羚等有蹄类动物就从塞伦盖蒂出发，跨越马拉河，来到马赛马拉寻找水源和更新鲜的草地，直到湿季时才会重返故乡。它们成群结队，疾驰狂奔，构成一幅声势浩大、奔腾喧闹的壮观画卷，被称为“世界七大奇观之一”。

图 7-34　东非野生动物迁徙路线示意

图 7-33　东非野生动物大迁徙

活动

1 读图 7-31，说一说，非洲主要有哪些气候类型？其分布有什么特点？



图 7-35　乞力马扎罗山自然植被垂直分布示意

2 读图 7-25、7-35，完成相关任务。

（1）乞力马扎罗山位于赤道附近，为什么山顶终年被积雪覆盖，成为“赤道雪峰”？

（2）说一说，乞力马扎罗山从山麓到山顶自然景观的变化。

人口与经济

非洲是世界文明的发祥地之一，拥有悠久的历史和灿烂的文化。从 15 世纪起，欧洲殖民者相继侵入非洲。到第二次世界大战前夕，非洲只有埃及、埃塞俄比亚和利比里亚 3 个独立国家，其余则沦为西方列强的殖民地。第二次世界大战后，非洲民族解放运动蓬勃发展，殖民统治土崩瓦解。

近半个世纪以来，非洲是世界上人口自然增长最快的大洲，2021 年总人口 12.84 亿人。非洲人口分布极不均匀，有些地区人口稠密，有些地区人口稀疏，甚至无人居住。

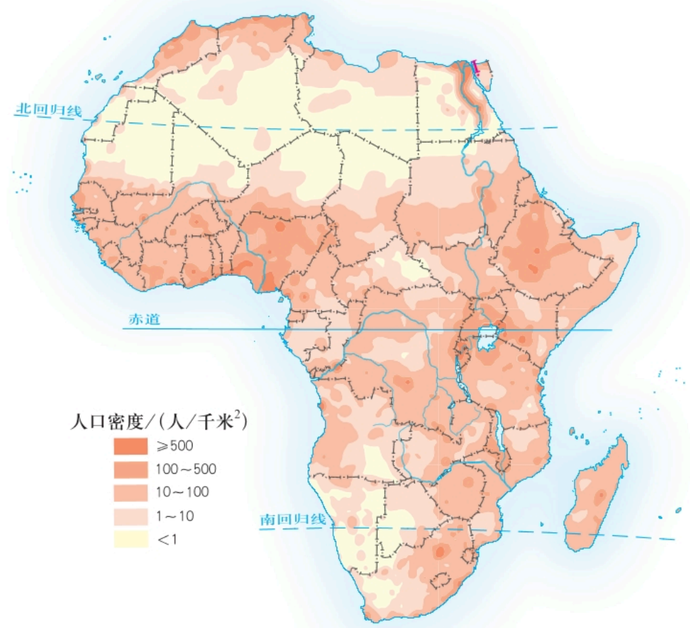

图 7-36　非洲人口分布

非洲矿产资源种类多，储量大。金刚石、黄金、铬铁矿、磷酸盐等储量和产量均居世界前列，石油、天然气也蕴藏丰富。

非洲的动植物资源极为丰富。大型野生动物的种类和数量均居世界各大洲之冠，其中非洲象、斑马、长颈鹿等闻名世界；桃花心木、檀木、花梨木等都是热带雨林地区的名贵树种。此外，非洲还是咖啡和油棕等热带作物的原产地。

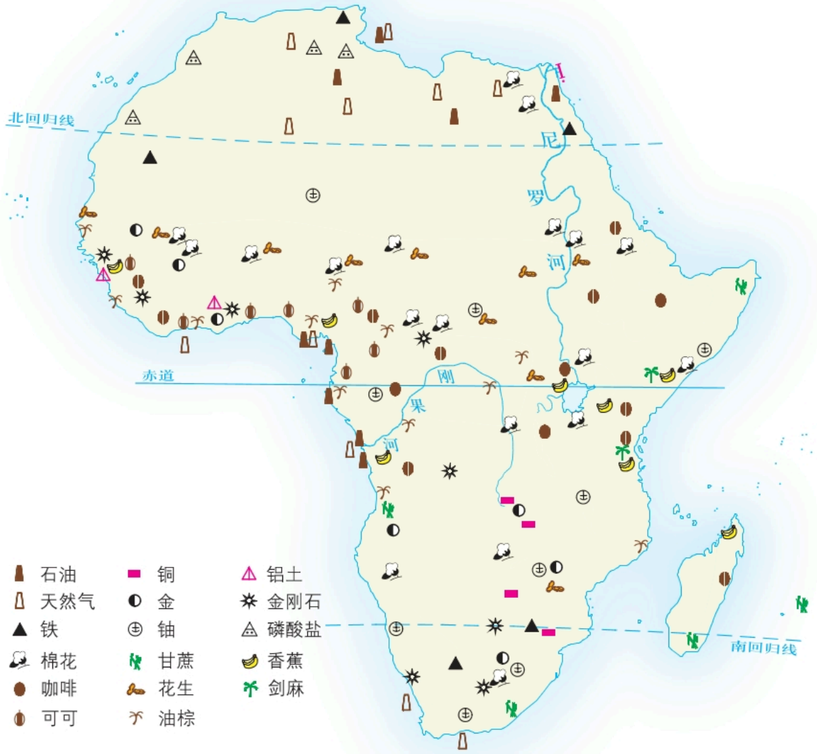

图 7-37　非洲主要矿产和农作物分布

长期的殖民统治，导致非洲许多国家表现出单一农矿经济结构的特征。在对外贸易中，大部分国家仅依靠生产和输出一种或者几种农矿原料产品来维持国民经济的运转。如刚果民主共和国和赞比亚的铜矿、几内亚的铝土矿、尼日利亚的油棕和石油、南非的金矿和金刚石矿、安哥拉的金矿、肯尼亚的咖啡、加纳的可可、索马里和毛里求斯的甘蔗、埃及和乌干达的棉花、塞内加尔的花生、坦桑尼亚的剑麻等。

活动

1 单一农矿经济结构的国家对国际市场具有严重的依赖性，不仅农矿产品的销售依赖国际市场，工业制成品和粮食也需从外部进口。因此，其经济发展缺乏自主性和独立性。据此，完成相关任务。

（1）议一议，非洲的单一农矿经济在对外贸易中可能受哪些因素影响？

（2）为摆脱单一农矿经济的影响，促进经济持续发展，非洲国家积极探索适合本国国情的发展道路。参考玲玲和贝贝的对话，查阅相关资料，你还能列举出哪些非洲国家发展多元经济的举措？

肯尼亚发展花卉业和旅游业，成为非洲最大的鲜切花出口国和著名的旅游国。

尼日利亚、安哥拉在出口石油的基础上，大力发展石油化学工业、机械制造工业等。

2 根据下列资料，完成相关任务。

近年来，我国与坦桑尼亚合作开展“小豆子，大营养”的玉米套种大豆项目。用玉米套种大豆，不仅可以增强土壤肥力，还能有效改善当地饮食的营养结构。同时，通过向当地农民传授大豆副产品制作技术，引导农户从简单的家庭作坊向规模化食品加工发展，形成完整的大豆产业链。

除玉米套种大豆外，杂交水稻种植等中国农科技术也漂洋过海，在万里之外的非洲大陆生根发芽。

（1）在图 7-24 中找出坦桑尼亚，结合图 7-25，说出该国的地理位置特点。

（2）结合地形和气候条件，谈谈坦桑尼亚发展农业生产的优势条件。

（3）综合上述资料，用自己的语言归纳我国主要在哪些方面与坦桑尼亚开展合作。你还了解我国与非洲国家开展了哪些合作？试与同学交流。

第三节 美 洲

发现

1492 年 8 月 3 日，意大利人哥伦布（约 1451 年—1506 年）率领船队自西班牙巴洛斯港出发，西行探索通往东方印度和中国的海上航路。经过 70 天的艰苦航行，哥伦布一行终于在 10 月 12 日凌晨发现了陆地，他们误以为到达了印度。后经意大利人亚美利哥考察，发现哥伦布到达的地方不是印度，而是一个“新大陆”。人们为了纪念亚美利哥，遂将这块“新大陆”命名为亚美利加洲，简称美洲。

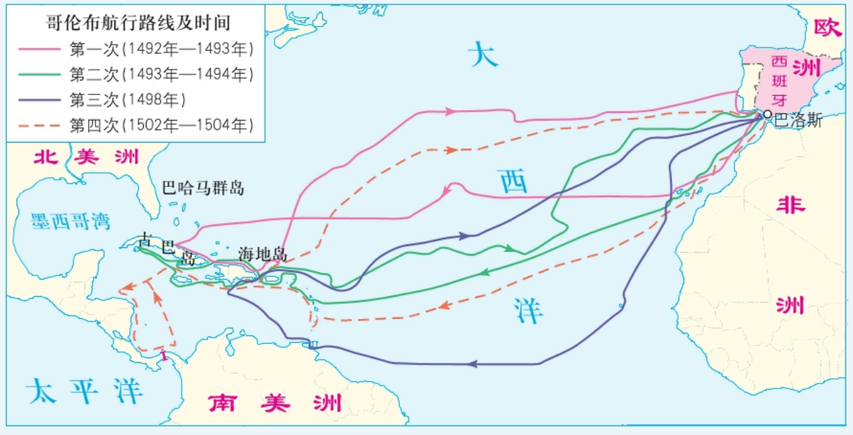

图 7-38 哥伦布四次西行航海路线示意

1. 哥伦布探索通往东方印度和中国的海上航路，为什么选择西行？
2. 哥伦布发现美洲，对美洲的发展及世界航海贸易具有哪些意义？

位置与范围

美洲绝大部分位于西半球，东临大西洋，西濒太平洋，北接北冰洋，南隔德雷克海峡同南极洲相望。美洲大陆是一块整体，人们在其中部中美地峡的狭窄部位开凿了巴拿马运河，习惯上以它作为划分北美洲与南美洲的界线。

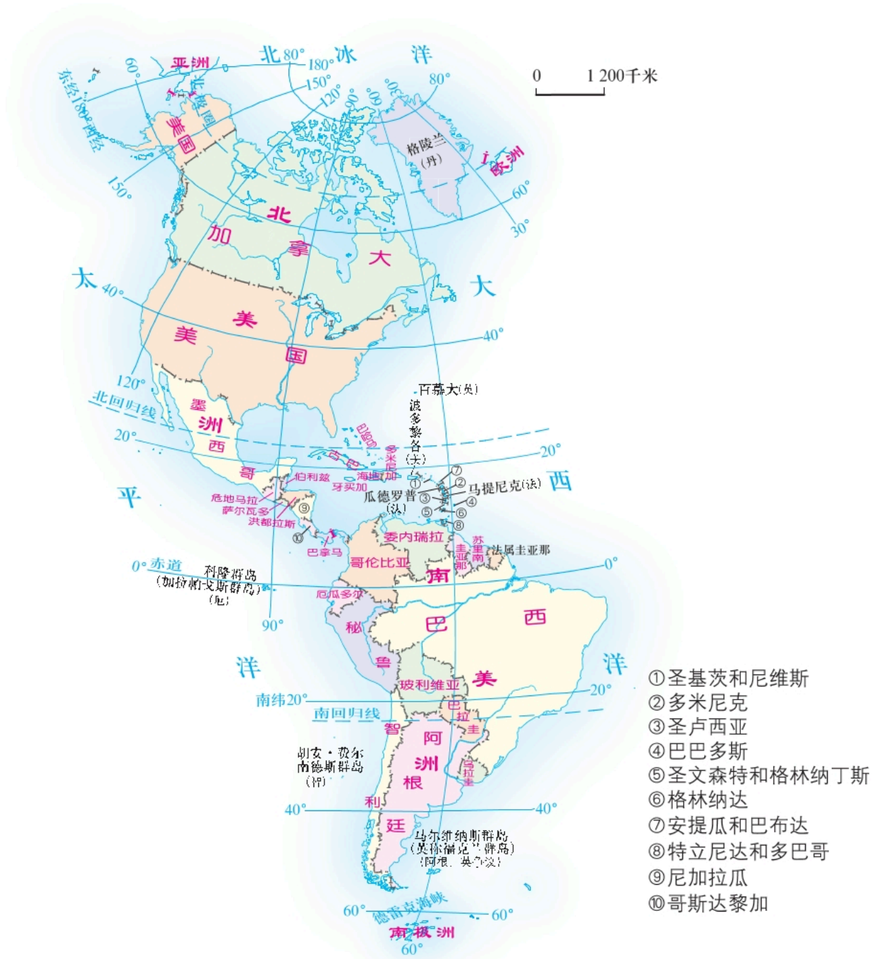

图 7-39 美洲的国家和地区

图 7-40 巴拿马运河示意

巴拿马运河全长 81.3 千米，可通航 10 万～12 万吨的轮船，大大缩短了太平洋与大西洋之间的航程，具有重要的经济价值与战略意义。

图 7-41 巴拿马运河航拍

阅读

“三线”穿越的白令海峡

白令海峡是连接北冰洋与太平洋的唯一通道，也是亚欧大陆与北美大陆之间最窄处，宽约 85 千米。亚洲与北美洲的洲界线、俄罗斯与美国的国界线、国际日界线都从白令海峡中部穿过，其中分属俄罗斯和美国的两个小岛相距仅 4 千米，可谓近在咫尺，日期却相差一天。诸多迹象表明，白令海峡曾是沟通亚洲与北美洲的“陆桥”，美洲现有的许多动植物就起源于亚洲。有学者推测，在数万年前的气候寒冷期，一部分亚洲人穿越冰封的白令海峡到达美洲，成为印第安人的祖先。

图 7-42　白令海峡

南北各异的自然环境

北美洲位于西半球北部，面积 2 422.8 万平方千米，在各大洲中居第三位。

北美洲平均海拔较高，地势起伏较大，地形分为三大南北纵列带：西部是高大的山系，中部是广阔的平原，东部是低缓的山地和高原。

世界第一大岛——格陵兰岛约 85% 的土地覆盖着巨厚的冰层，是除南极洲以外冰川分布最广的地区。由苏必利尔湖、密歇根湖、休伦湖、伊利湖和安大略湖组成的五大湖，是世界最大的淡水湖群，素有“北美地中海”之称。

图 7-43　格陵兰岛景观

图 7-44　五大湖卫星影像

图 7-45　北美洲地形分布

图 7-46　落基山脉

图 7-47　大平原

图 7-48　阿巴拉契亚山脉

图 7-49　安第斯山脉

图 7-50　潘帕斯草原

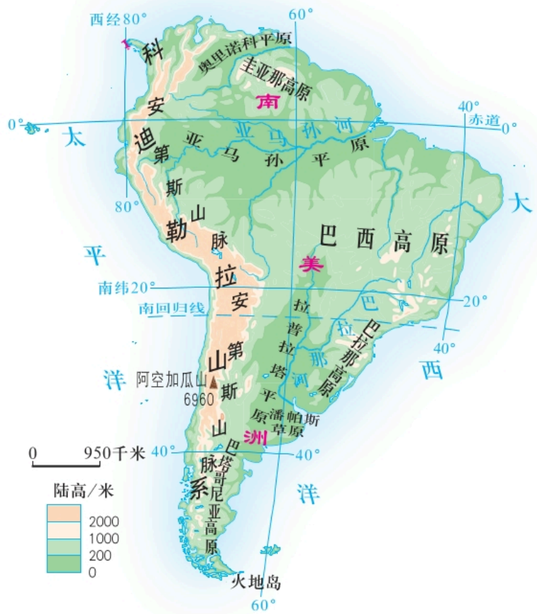

图 7-51　南美洲地形分布

与北美洲类似，南美洲西部也分布着年轻高大的山脉——安第斯山脉。安第斯山脉纵贯南美大陆，全长近 9 000 千米，为世界最长的山脉。安第斯山脉以东，地域广阔，平原与高原相间分布。

活动

❶ 读图 7–45、7–51，找出北美洲和南美洲的主要山脉、高原和平原。

❷ 观察玲玲、贝贝绘制的北美洲和南美洲地形简图（图 7–52、7–53），完成相关任务。

（1）对照图 7–45、7–51，说一说，地形简图所表示的主要地形区名称。

（2）说一说，北美洲与南美洲的地形分布格局有哪些异同？

（3）参考玲玲、贝贝的方法，绘制一幅其他大洲的地形简图。

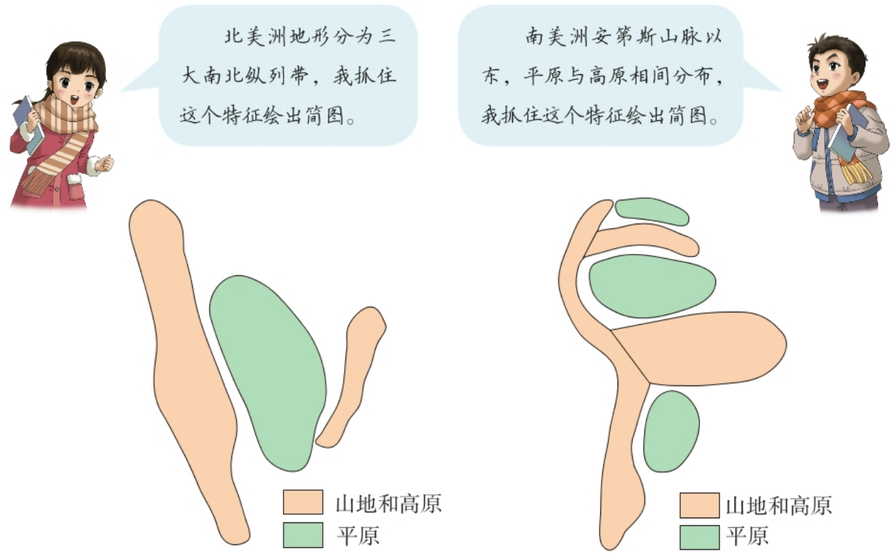

图 7–52　北美洲地形简图示意　　图 7–53　南美洲地形简图示意

北美洲和亚洲一样，地跨寒、温、热三带，气候类型复杂多样。但是，北美洲大部分地区位于温带，以温带大陆性气候为主，热带范围相对狭小。

由于山脉多为南北走向，来自太平洋的湿润气流仅能到达西部沿海地区。从北冰洋南下的寒冷气流和从墨西哥湾北上的暖湿气流在北美大陆中部畅行无阻。即使是处于热带和亚热带的墨西哥湾沿岸，冬季也会出现低温天气。

南美洲热带范围广阔，温带面积不大，寒带缺失。气候类型以热带雨林气候和热带草原气候为主。

除高山地区外，南美洲最冷月平均气温都在 0℃以上，冬季比较温暖；而最热月的平均气温一般不超过 28℃，夏季没有酷暑。南美洲降水充沛，大部分地区的年降水量在 1 000 毫米以上，是世界上最湿润的大洲。

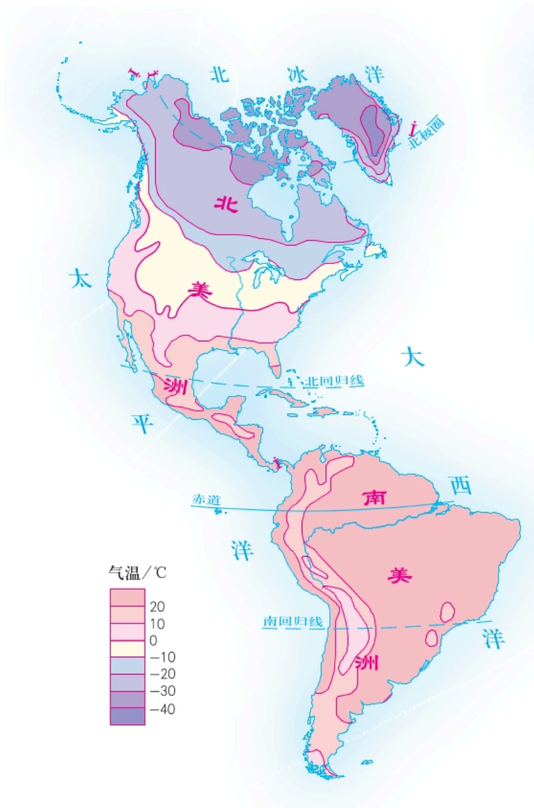

图 7-54　美洲 1 月平均气温分布

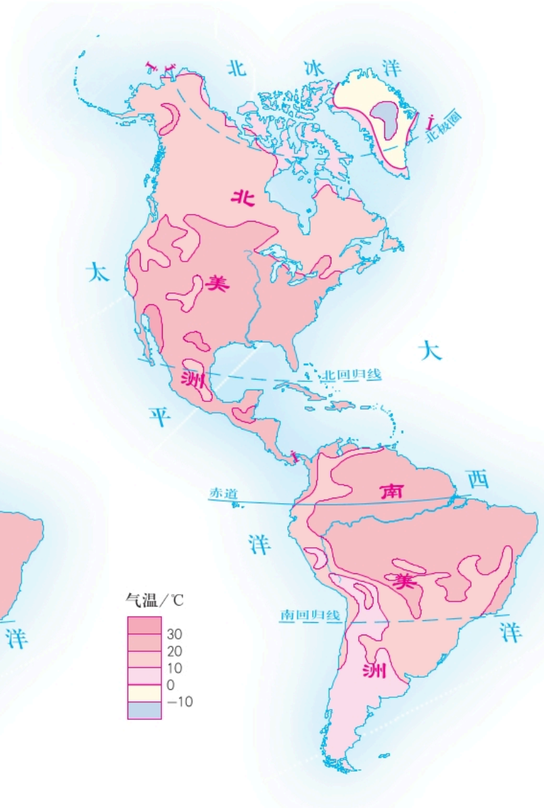

图 7-55　美洲 7 月平均气温分布

图 7-56　美洲年降水量分布

图 7-57　美洲气候类型分布

活动

1 读图 7-57，想一想，南北美洲的热带沙漠气候、地中海气候和温带海洋性气候，在空间分布上有什么特点？这些特点主要与哪些因素有关？

2 读图 7-59，在北美洲中部，冬季寒冷气流可到达墨西哥湾沿岸；春夏季节，来自墨西哥湾的暖湿气流也能长驱北上，到达哈得孙湾附近。这些现象可能产生哪些影响？

图 7-58　美国东南部遭受冻害的柑橘

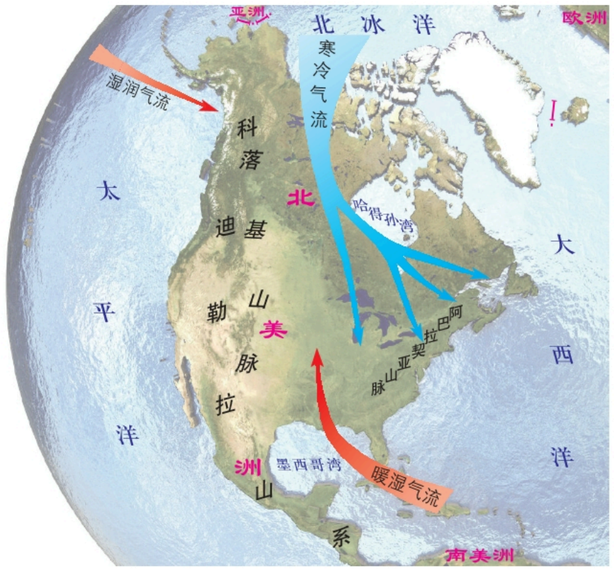

图 7–59　北美洲地形对气候的影响示意

3 在亚洲东部和东南部，许多大城市坐落在大河下游肥沃的平原上，而南美洲有些国家的首都和大城市却建在高山、高原上，甚至是沙漠地区。结合下列资料，读图 7–54 至图 7–57，对此作出合理解释。

厄瓜多尔首都基多（0°10′，78°28′W），坐落在赤道附近平均海拔 2 850 米的高山山谷中，2021 年人口 282.7 万人。秘鲁首都利马（12°2′S，77°2′W），坐落在太平洋沿岸平均海拔 105 米的热带沙漠中，2021 年人口 948 万人。

基多月平均气温和降水量

月份	1	2	3	4	5	6	7	8	9	10	11	12
气温 /℃	14.2	14.0	14.3	14.3	14.5	14.5	14.6	15.0	14.8	14.3	14.3	14.4
降水量 / 毫米	74	114	127	149	98	37	26	32	79	115	79	83

利马月平均气温和降水量

月份	1	2	3	4	5	6	7	8	9	10	11	12
气温 / ℃	21.7	22.4	21.9	20.2	17.8	16.1	15.0	15.0	15.6	16.1	17.6	19.4
降水量 / 毫米	0.8	0.4	0.4	0.1	0.3	0.7	1.0	1.5	0.7	0.2	0.1	0.2

阅读

学会判别气候类型

判断某地所属的气候类型，一般有两种方法。一是根据分布规律判断气候类型，即根据气候类型的分布规律在区域分布图中确认其气候类型。二是根据气候特征判断气候类型，即根据气候要素（主要是气温和降水指标）的统计资料，归纳出该气候类型的特征并加以确认。例如，判断图 7–60 所示气候类型时，根据气温和降水的配合情况，可知它们都属于地中海气候，一个在北半球，另一个在南半球。

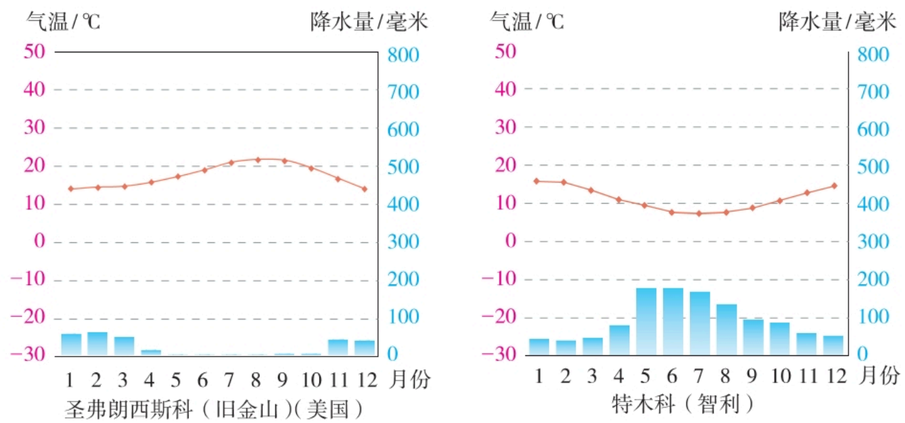

图 7–60　圣弗朗西斯科（旧金山）和特木科气温年变化曲线和逐月降水量

判别热带气候类型，首先看最冷月平均气温，再综合分析年降水量以及各月分配等因素。例如，热带雨林气候、热带草原气候、热带沙漠气候和热带季风气候的判别，都可依据上述方法。

在亚洲和北美大陆东部，都选用最冷月 1 月 0℃等温线，作为亚热带与温带的分界线。

判别寒带气候类型，应更多地关注最热月平均气温：如果在 0℃以上 10℃以下，苔藓和地衣等可生长发育，则为苔原气候；低于 0℃，则形成终年严寒的冰原气候，例如南极洲和格陵兰岛上的绝大部分地区。

各具特色的人文环境

北美洲面积最大的国家是加拿大，其次是美国。历史上，它们都曾是英、法等国的殖民地，两国通行英语。加拿大有一部分居民讲法语，主要分布在魁北克地区。

美国以南的美洲地区，历史上长期受西班牙和葡萄牙的殖民统治，目前主要通行西班牙语和葡萄牙语。由于这两种语言都属于拉丁语族，所以人们通常将美国以南的美洲地区称为拉丁美洲。

阅读

美洲的居民

美洲的原住居民主要是印第安人。欧洲殖民者来到美洲“新大陆”后，先是血腥屠杀当地的原住居民，后又从非洲贩运来大量黑人充作奴隶。来自欧洲及其他大洲的移民逐渐成为北美洲人口的主体，美国和加拿大都是典型的移民国家。2021 年，南美洲总人口 4.35 亿人。南美洲种族成分非常复杂，不同人种之间长期通婚，形成了混血人种，号称“世界人种大熔炉”。

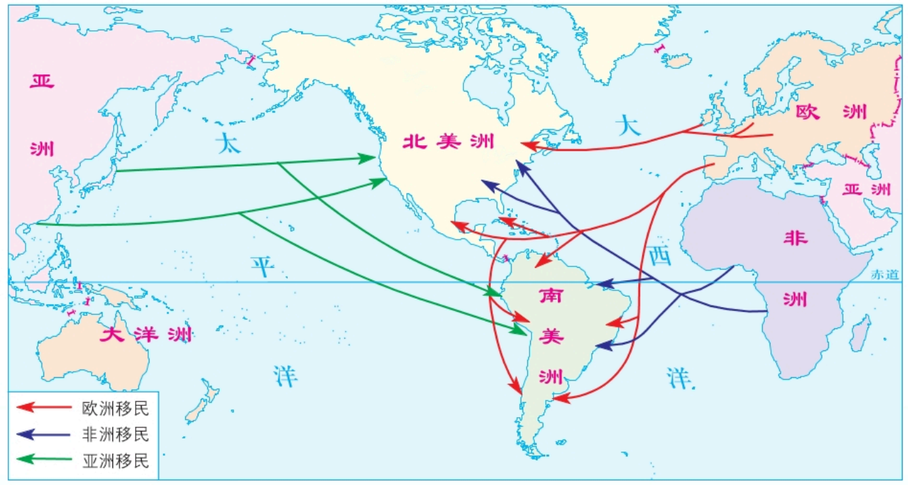

图 7-61　16—20 世纪美洲移民来源示意

美洲的经济发展很不平衡。美国和加拿大是发达国家，其余都是发展中国家。

北美洲主要包括加拿大、美国、墨西哥、古巴以及加勒比海地区的众多国家。其中，加拿大地广人稀，矿产资源丰富，制造业水平高；美国工农业都非常发达，经济总量居世界首位；墨西哥依托墨西哥湾丰富的石油资源，形成了以石油化学工业为支柱的工业体系。

图 7-62　南美洲主要矿产和农作物分布

南美洲有巴西、阿根廷、秘鲁、哥伦比亚、委内瑞拉和智利等 13 个国家和地区。目前，巴西是南美洲工农业较发达的国家。阿根廷为重要的小麦出口国，牛肉、羊毛等畜产品在国际市场上占有重要地位。南美洲经济虽有较大发展，但多有起伏。农矿产品仍然是其主要出口商品，能源矿产以石油为主，金属矿产以铁、铜、铝土为多。农业以种植业为主，经济作物优势突出，大量出口咖啡、可可、香蕉、蔗糖等。

活动

根据已学知识，完成下表。

大洲	北美洲	南美洲
面积 / 万千米^2		1 797
在地球五带中的位置	大部分位于北温带	
最长的山脉		安第斯山脉
最长的河流	密西西比河	
主要气候类型		热带雨林气候、热带草原气候
面积最大的国家		巴西
主要人种		以混血人种为主
主要国家及其经济发展水平	美国、加拿大是发达国家	

探究与实践

“划区”识世界

学习完亚洲、欧洲、非洲和美洲后，玲玲和贝贝觉得大洲内部的自然地理环境过于复杂，存在着显著的景观差异。要想更好地学习和认识大洲，需要我们将大洲划分为不同的“区（块）”来进一步深入探究。下面，以亚洲为例，了解“划区”的方法。

任务一　了解亚洲“划区”的方法

亚洲幅员辽阔，跨纬度、经度较多，自然地理环境具有复杂性、典型性，是全球最大的陆地自然综合体。人们根据亚洲内部的地理方位，在综合考虑其自然地理环境特征的基础上，将亚洲大致分为东亚、东南亚、南亚、西亚、中亚和北亚 6 个地区。

勾画：在图 7–63 中勾画亚洲 6 个地区的范围，并分别描述它们的地理位置。

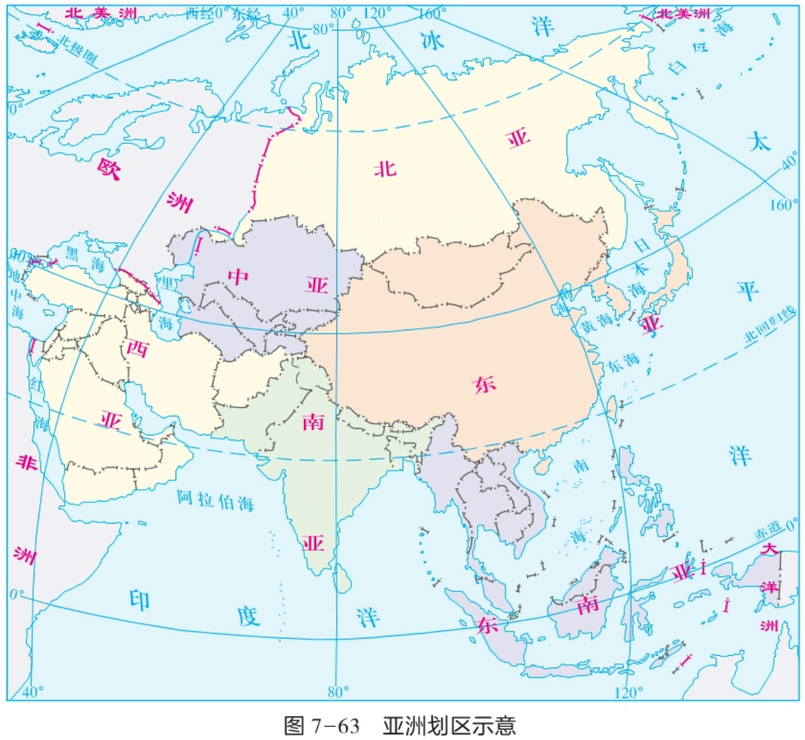

图 7–63　亚洲划区示意

填表：结合有关资料，完成下表。

地区	东亚	东南亚	南亚	西亚	中亚	北亚
主要国家						
主要地形类型						
主要气候类型						

任务二　理解“划区”的主要依据和作用

亚洲这样“划区”好像还考虑了亚洲各地区的人文地理特征啊！

你说得对！这仅仅是一种大家普遍使用的“划区”方法，我们还可以根据不同的研究目的采用不同的划分方法。

思考：在对亚洲进行“划区”时，“南亚”这个区的划定除考虑方位因素外，还考虑了哪些自然或人文地理要素？

讨论：将某个较大的区域划分为若干个小区域的方法，对我们今后的地理学习有哪些重要作用？

任务三　对其他大洲进行“划区”

迁移：选择某一大洲的地形分布图和气候分布图，尝试对该大洲进行“划区”。

归纳：阐释自己这样“划区”的目的和依据。

交流：与同学交流自己的“划区”方法，互相学习，取长补短。

第八章

了解地区

当你漫步在椰林婆娑的东南亚海滨，扑面而来的是湿热的热带气息；当你徜徉在西亚古城的街头巷尾，吸引目光的是浓郁的宗教特色；当你来到南亚乡村的田间地头，会为这里传统的生活方式而感慨；当你走进欧洲西部现代化的工厂装配车间，会被那精湛的科学技术所震撼……

不同地区独特的自然和人文景观在世界舞台上交相辉映、流光溢彩，让我们身临其境去感受它们别具一格的魅力吧！

意大利多洛米蒂山

第一节　东南亚

发现

东南亚是世界上海外华人相对集中的地区，华人总数 2 000 万以上。19 世纪末至 20 世纪初，我国东南沿海一带，特别是广东、福建两省，有大量劳动力“下南洋”谋生。他们中的多数人及其后代取得了所在国国籍，也有少数人仍保留中国国籍。这些海外华人与当地人民世代和睦相处，对东南亚的开发和繁荣作出了巨大贡献。

1 读图 8-1，说一说，华人在东南亚的分布具有哪些特点？

2 查找相关资料，议一议，这些华人对当地经济发展产生了哪些积极作用？

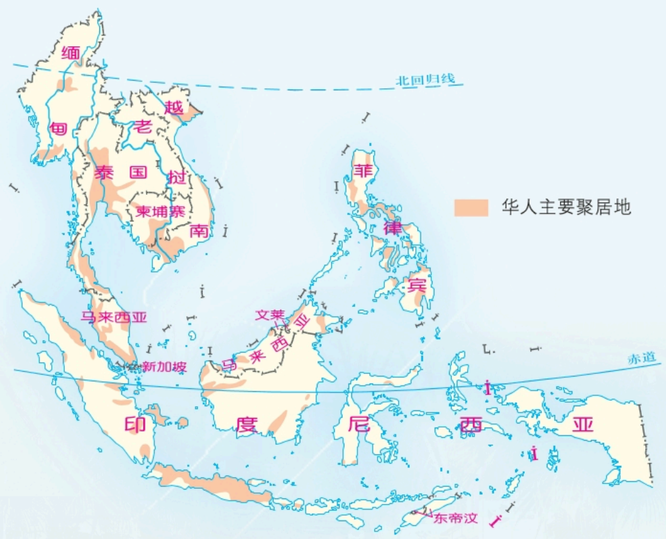

图 8-1　东南亚华人分布

图 8-2　马来西亚吉隆坡唐人街

“十字路口”的位置

东南亚位于亚洲东南部，包括中南半岛和马来群岛两大部分。

中南半岛因在中国以南而得名。马来群岛在中南半岛的东南方，由散布在太平洋和印度洋之间的 2 万多个大小岛屿组成，又称为南洋群岛。东南亚地处亚洲与大洋洲、太平洋与印度洋之间的“十字路口”，是世界海洋运输和航空运输的枢纽地域。

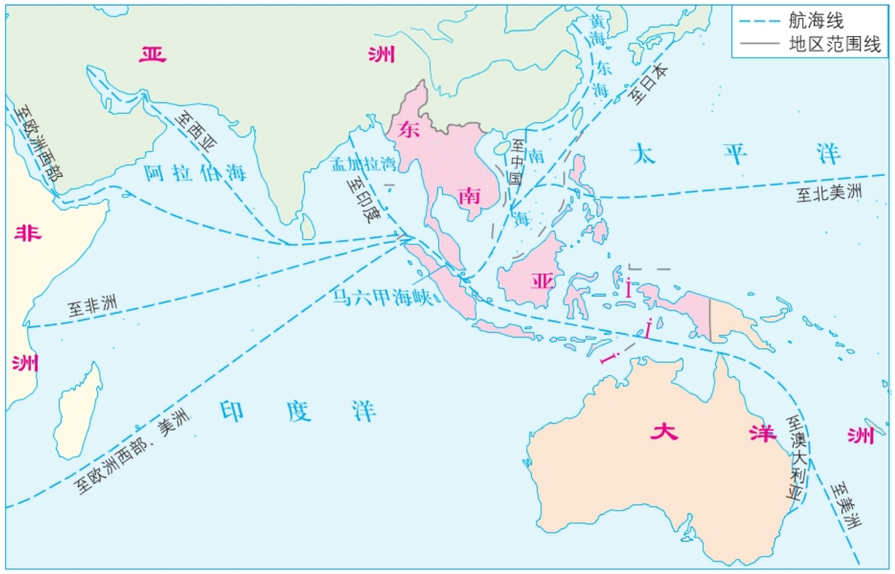

图 8-3　东南亚位置

阅读

马六甲海峡

马六甲海峡位于马来半岛与苏门答腊岛之间，因马来半岛的著名古城马六甲而得名。海峡长 1 080 千米，呈西北宽、东南窄的喇叭形，最窄处仅 5.4 千米。一般水深 25～27 米，自东南向西北递增，最深处达 200 米，大部分时间风平浪静，有利于航行。该海峡现由马来西亚、印度尼西亚和新加坡三国共同管辖。

马六甲海峡是沟通太平洋和印度洋的天然水道，也是联结欧洲、印度洋沿岸港口与太平洋西岸港口的重要航道。目前，海峡可通行 20 万吨级油轮，年通过船只约 8 万艘，是世界上最为繁忙的航道之一。海峡东南端的新加坡港是世界著名海港。

山河相间的地形

中南半岛的地势北高南低。北部与中国山水相连，高山和大河由北向南延伸，形成山河相间、纵列分布的地形格局。河流上游奔腾在崇山峻岭之中，蕴藏着丰富的水能资源。进入下游后，水流平缓，泥沙沉积，形成冲积平原。

马来群岛中的大多数岛屿地形崎岖，山岭多，平原少，河流湍急。这里火山、地震活动较为频繁，部分地方地质灾害突出。

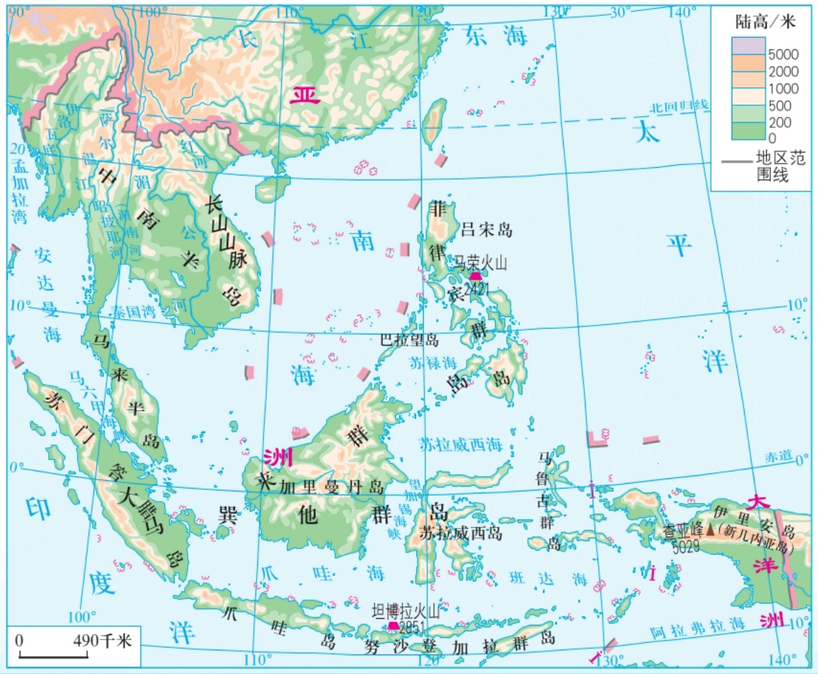

图 8-4　东南亚地形分布

马荣火山位于菲律宾吕宋岛东南部，是一座活火山，1616 年以来有记录的喷发共 47 次。马荣火山山体呈近乎完美的圆锥形。

图 8-5　菲律宾马荣火山

湿热的气候

中南半岛大部分为热带季风气候，全年气温高，降水年内分配不均，有雨季和旱季之分。每年 6 月到 10 月盛行西南风，降水较多，为雨季；11 月到次年 5 月盛行东北风，降水偏少，为旱季。

赤道横穿马来群岛中部，群岛大部分地区属于热带雨林气候。由于终年高温多雨，许多地方分布有茂密的热带雨林。

图 8-6　东南亚气候类型分布

活动

1 在图 8-4 中，找出伊洛瓦底江、萨尔温江、昭披耶河（湄南河）、湄公河、红河，说出这些河流的流向特点，并判断它们分别注入哪个大洋。

2 根据所学知识，填表对比中南半岛和马来群岛的自然地理特征。

地区	地形特征	气候特征	河流特征
中南半岛			
马来群岛			

富饶的物产

东南亚全年高温，降水丰沛，是世界重要的热带作物产地。橡胶、油棕、椰子、蕉麻等热带作物的产量及出口量均居世界前列。

东南亚各国普遍种植水稻。稻米是当地居民的主要食粮，也是传统的出口产品。印度尼西亚、越南、泰国、缅甸和菲律宾是东南亚主要的稻米生产国，其中泰国、越南、缅甸是世界重要的稻米出口国。